Heimsins lond

LITBÓK · 8 KORT AT LITA

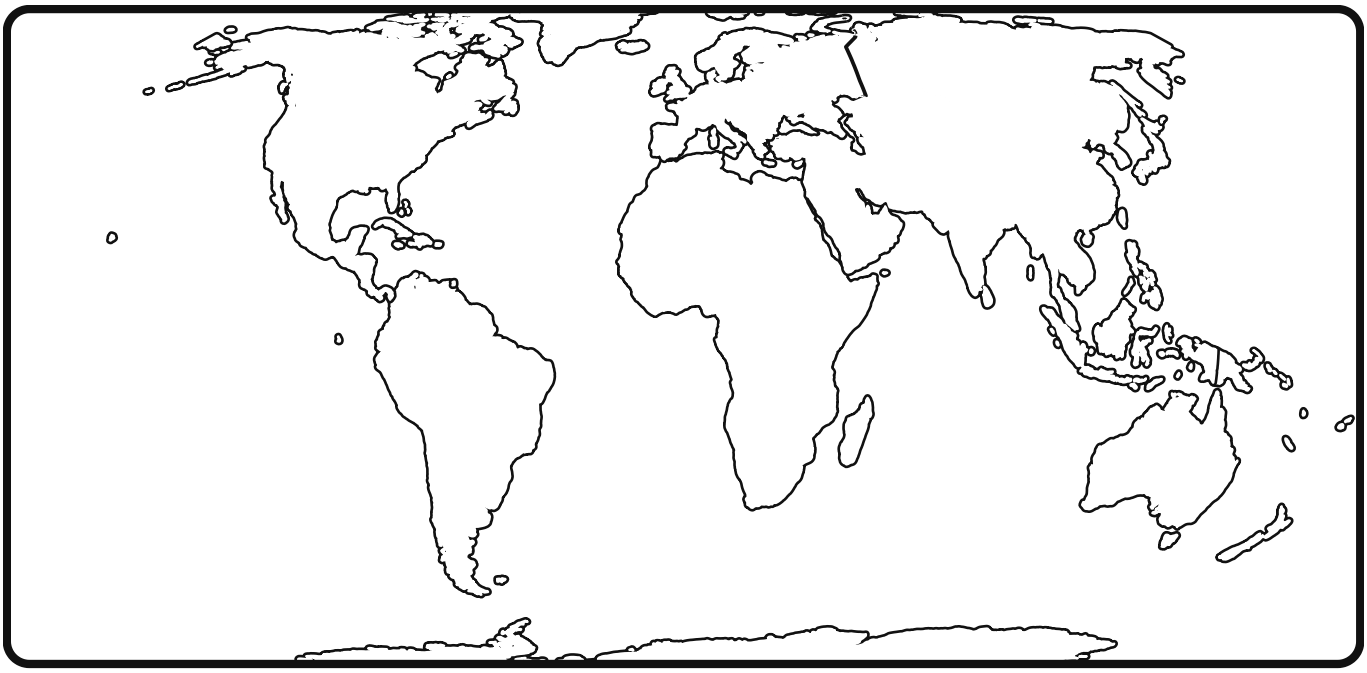

Lita hvørt land við sínum liti, og royn at geva grannalondum ymiskar litir.
Klárar tú eitt heilt kort við bert fýra litum?

Navn: _____

Heimurin

Vel ein lit til hvønn heimspart. Lita fyrst kassan við talinum, og lita so heimspartin á kortinum við sama liti.

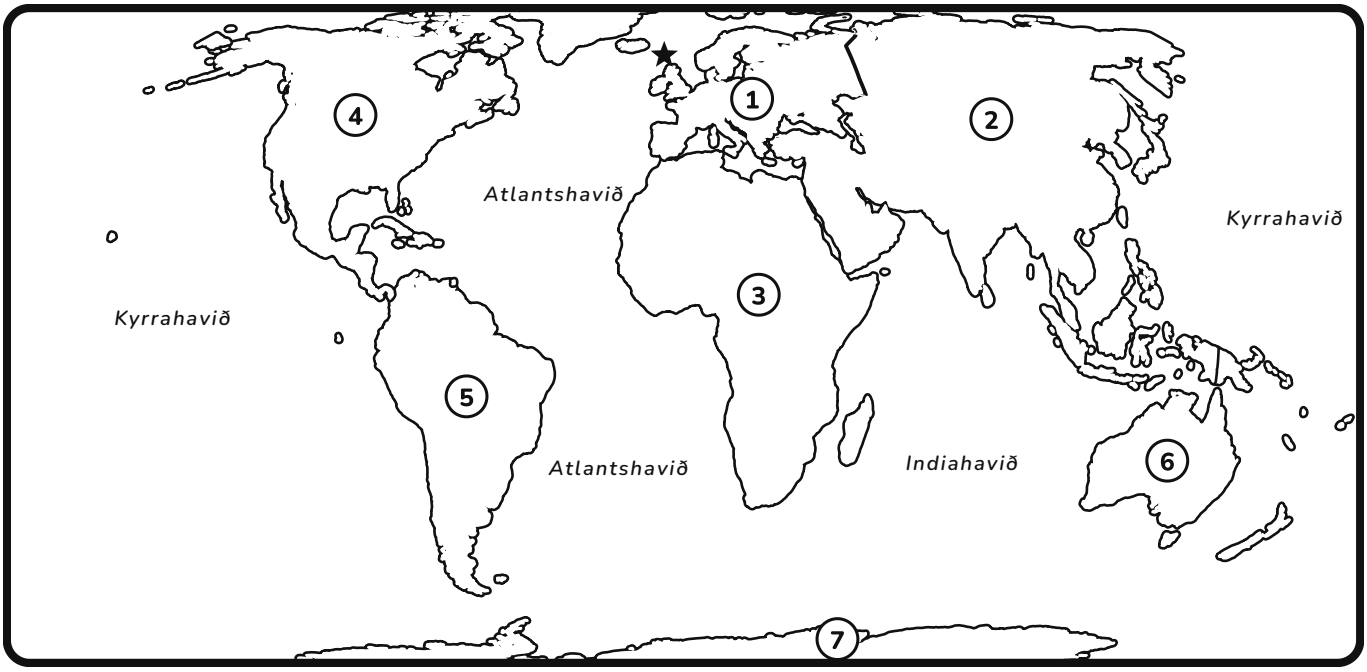

1 ☐ Evropa

2 ☐ Asia

3 ☐ Afrika

4 ☐ Norðuramerika

5 ☐ Suðuramerika

6 ☐ Oseania

7 ☐ Antarktis

- Stjørnan vísir, hvar Føroyar eru. Hvønn heimspart hoyra Føroyar til?
- Lita havið blátt. Hvat hav liggur millum Evropa og Norðuramerika?
- Hvør heimspartur er størstur, og hvør er minstur?

Norðurlond

Finn landið í listanum, og lita tað á kortinum. Royn at geva grannalondum ymiskar litir.

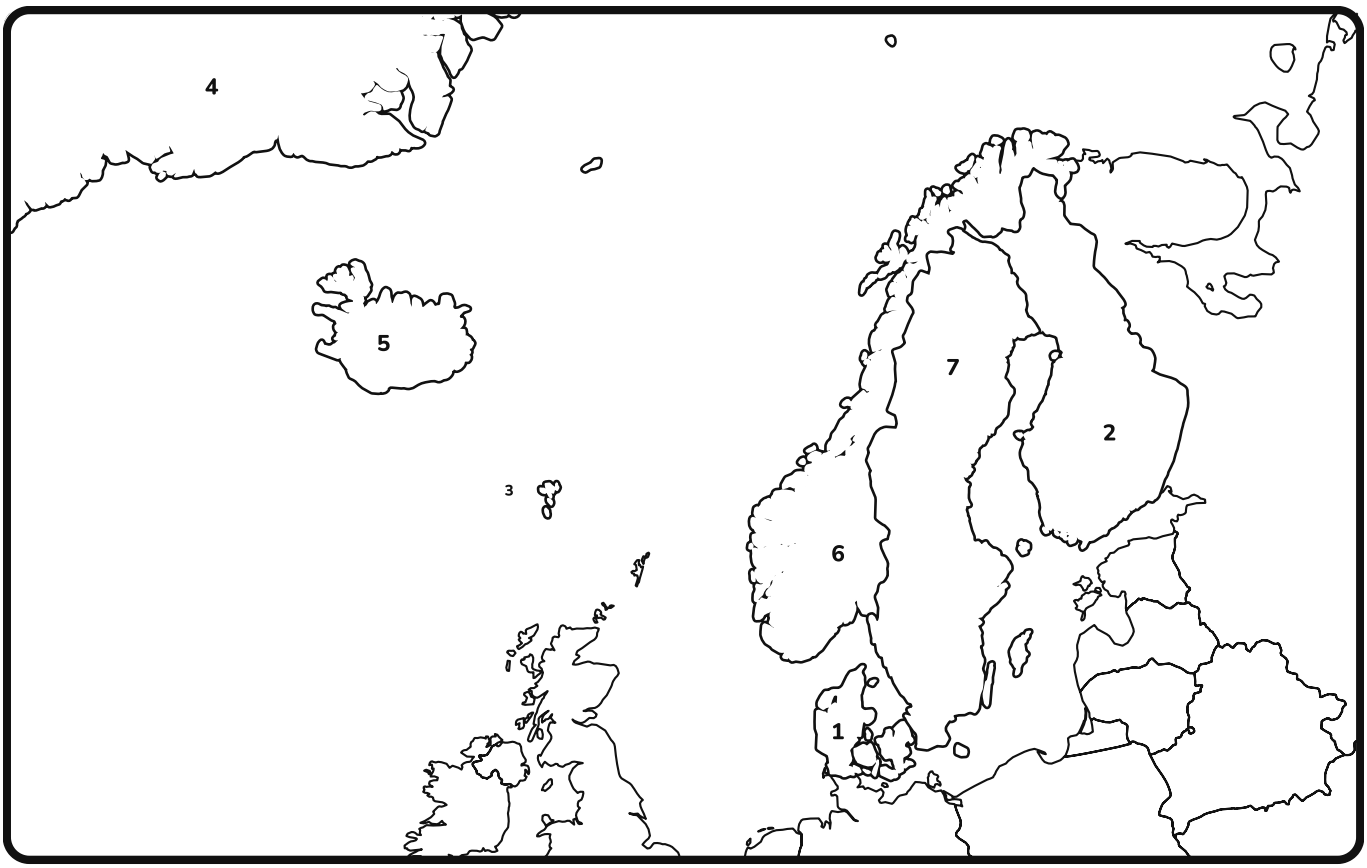

1 Danmark
2 Finnland
3 Føroyar
4 Grønland
5 Ísland
6 Noreg
7 Svøríki

Evropa

Finn landið í listanum, og lita tað á kortinum. Royn at geva grannalondum ymiskar litir.

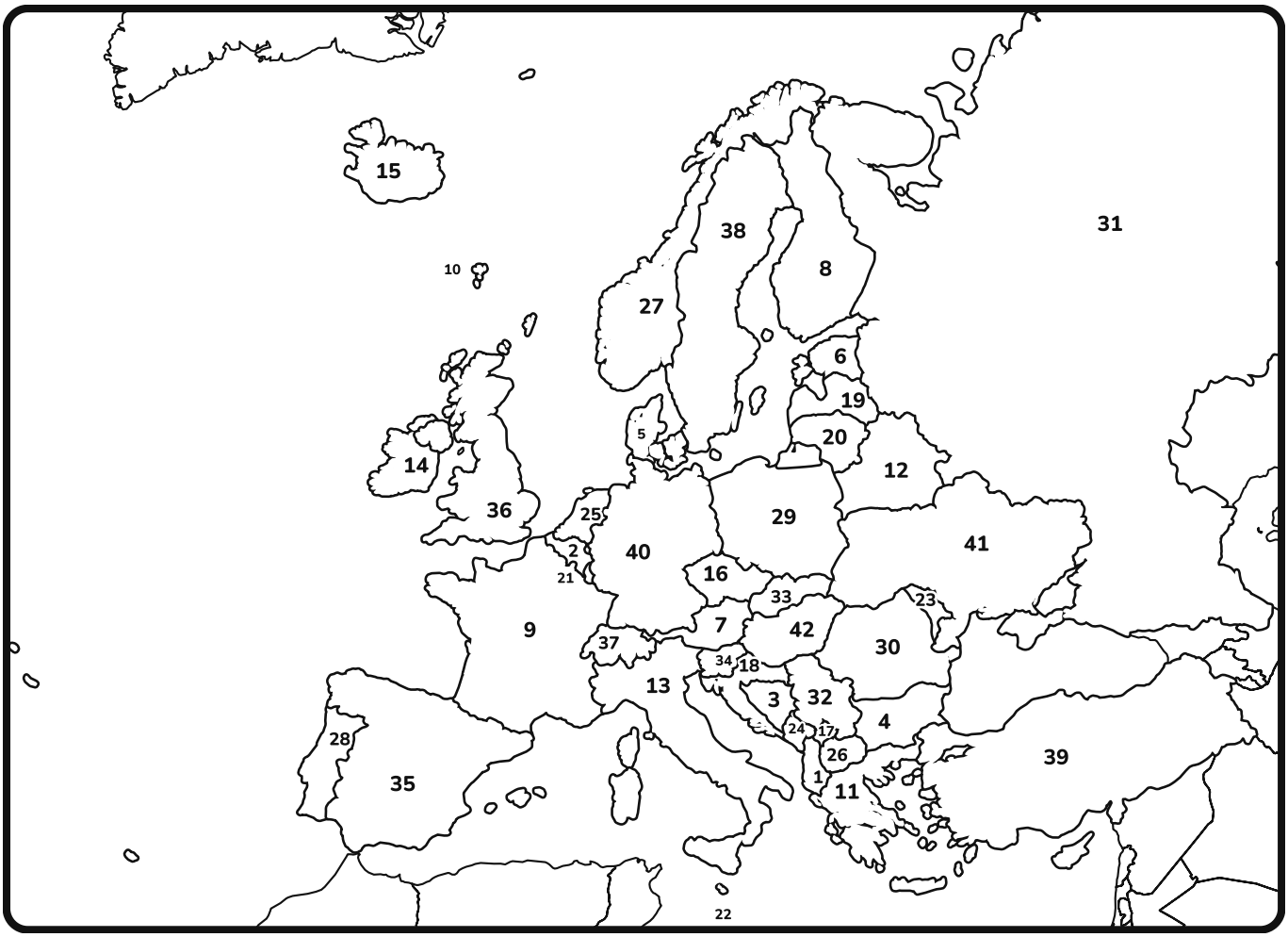

1 Albania
2 Belgia
3 Bosnia-Hersegovina
4 Bulgaria
5 Danmark
6 Estland
7 Eysturríki
8 Finnland
9 Frakland
10 Føroyar
11 Grikkaland
12 Hvítarussland
13 Italia
14 Írland
15 Ísland
16 Kekkia
17 Kosovo
18 Kroatia
19 Lettland
20 Litava
21 Luksemborg
22 Malta
23 Moldova
24 Montenegro
25 Niðurlond
26 Norðurmakedónia
27 Noreg
28 Portugal
29 Pólland
30 Rumenia
31 Russland
32 Serbia
33 Slovakia
34 Slovenia
35 Spania
36 Stóra Bretland
37 Sveis
38 Svøríki
39 Turkaland
40 Týskland
41 Ukraina
42 Ungarn

Afrika

Finn landið í listanum, og lita tað á kortinum. Royn at geva grannalondum ymiskar litir.

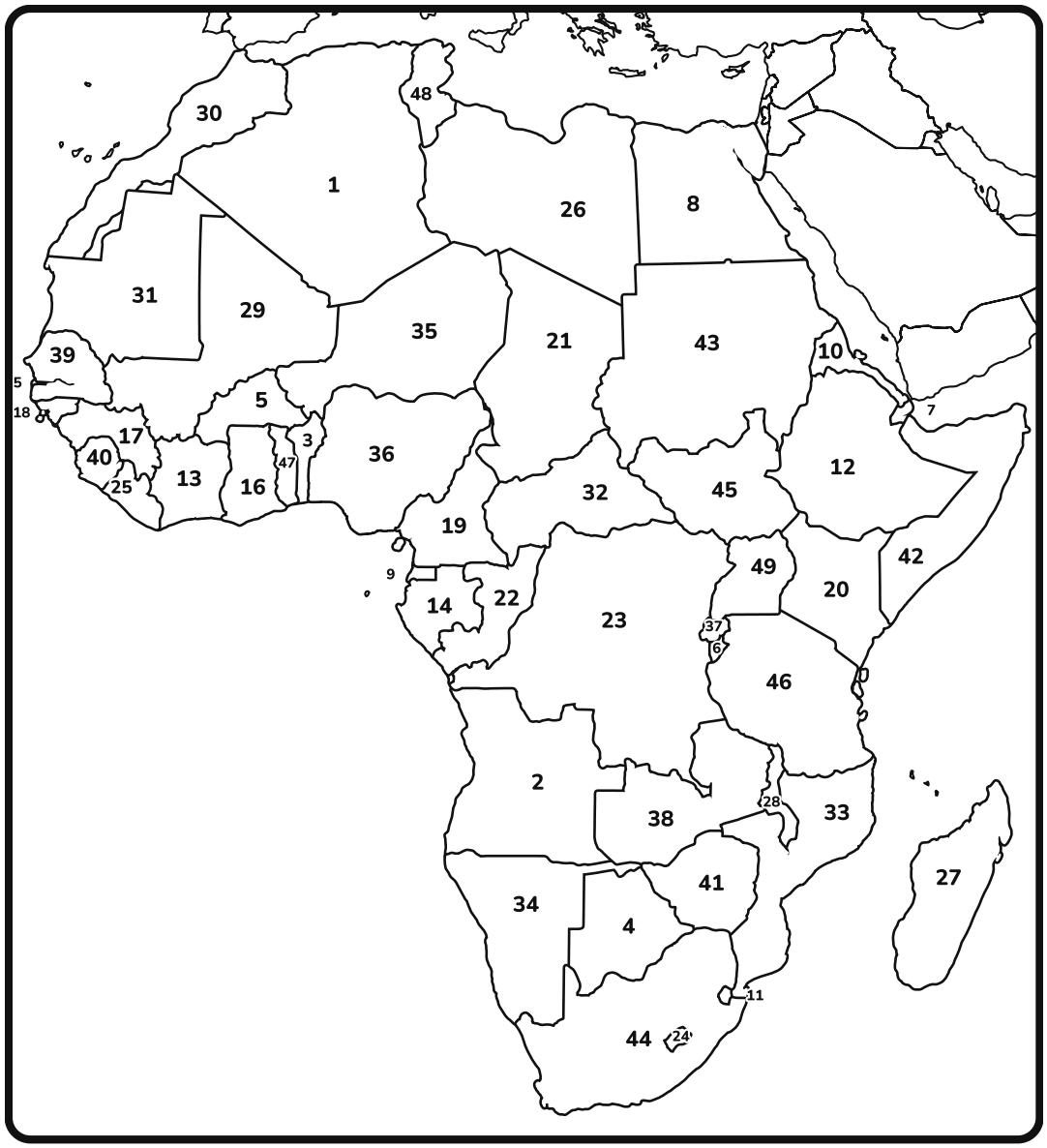

1 Algeria
2 Angola
3 Benin
4 Botsvana
5 Burkina Faso
6 Burundi
7 Djibuti
8 Egyptaland
9 Ekvatorguinea
10 Eritrea
11 Esvatini
12 Etiopia
13 Fílabeinsstrondin
14 Gabon
15 Gambia
16 Gana
17 Guinea
18 Guinea-Bissau
19 Kamerun
20 Kenja
21 Kjad
22 Kongo-Brazzaville
23 Kongo-Kinshasa
24 Lesoto
25 Liberia
26 Libya
27 Madagaskar
28 Malavi
29 Mali
30 Marokko
31 Mauritania
32 Miðafrikalýðveldið
33 Mosambik
34 Namibia
35 Niger
36 Nigeria
37 Ruanda
38 Sambia
39 Senegal
40 Sierra Leona
41 Simbabvi
42 Somalia
43 Sudan
44 Suðurafrika
45 Suðursudan
46 Tansania
47 Togo
48 Tunesia
49 Uganda

Asia

Finn landið í listanum, og lita tað á kortinum. Royn at geva grannalondum ymiskar litir.

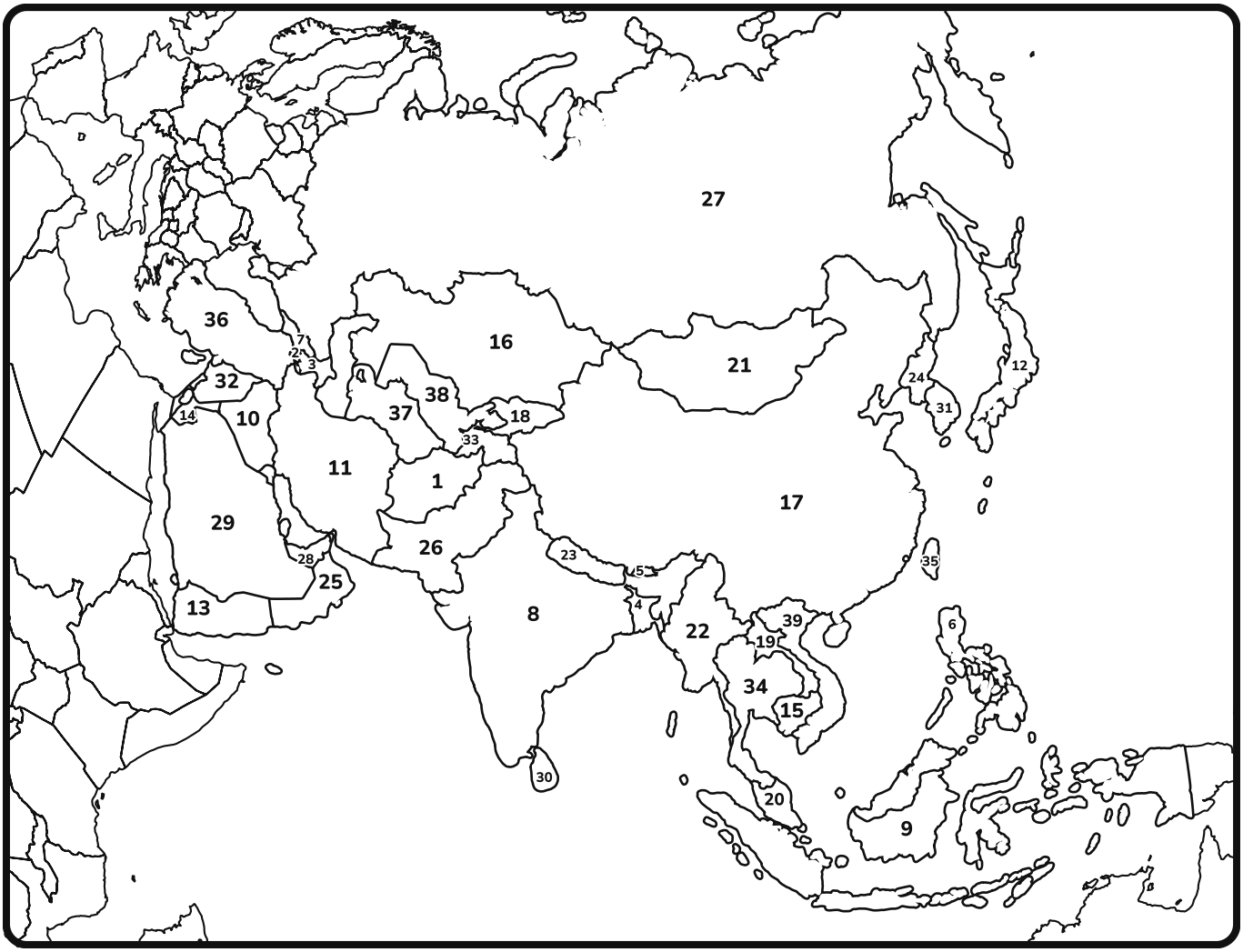

1 Afganistan
2 Armenia
3 Aserbadjan
4 Bangladesj
5 Butan
6 Filipsoyggjar
7 Georgia
8 India
9 Indonesia
10 Irak
11 Iran
12 Japan
13 Jemen
14 Jordan
15 Kambodja
16 Kasakstan
17 Kina
18 Kirgisia
19 Laos
20 Malaisia
21 Mongolia
22 Myanmar
23 Nepal
24 Norðurkorea
25 Oman
26 Pakistan
27 Russland
28 Sameindu Emirríkini
29 Saudi-Arabia
30 Sri Lanka
31 Suðurkorea
32 Sýria
33 Tadsjikistan
34 Tailand
35 Taivan
36 Turkaland
37 Turkmenistan
38 Usbekistan
39 Vjetnam

Norðuramerika

Finn landið í listanum, og lita tað á kortinum. Royn at geva grannalondum ymiskar litir.

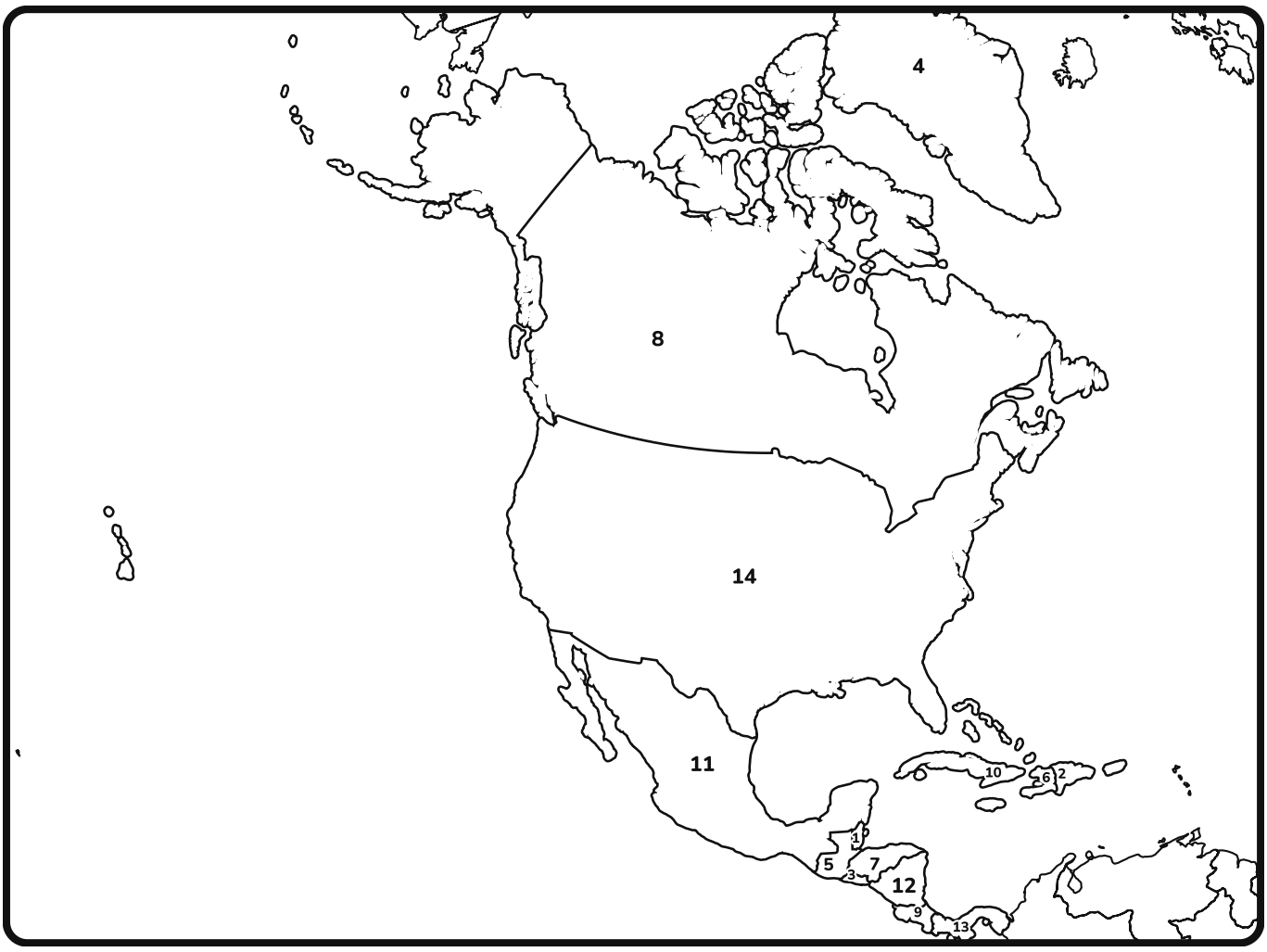

1 Belis
2 Dominikalýðveldið
3 El Salvador
4 Grønland
5 Guatemala
6 Haiti
7 Honduras
8 Kanada
9 Kosta Rika
10 Kuba
11 Meksiko
12 Nikaragua
13 Panama
14 USA

Suðuramerika

Finn landið í listanum, og lita tað á kortinum. Royn at geva grannalondum ymiskar litir.



1 Argentina
2 Bolivia
3 Brasil
4 Ekvador
5 Franska Gujana
6 Gujana
7 Kili
8 Kolumbia
9 Paraguai
10 Peru
11 Surinam
12 Uruguai
13 Venesuela

Oseania

Finn landið í listanum, og lita tað á kortinum. Royn at geva grannalondum ymiskar litir.



1 Avstralia
2 Fiji
3 Nýkaledónia
4 Nýsæland
5 Papua Nýguinea
6 Sálomonoyggjar
7 Vanuatu